Cinemática

Atualizado em 29/09/2018

Na cinemática estuda-se o movimento de uma partícula independentemente das causas que provocam esses movimento.

Trajetória: É o lugar geométrico dos pontos sucessivamente ocupados por uma partícula durante o seu movimento.

Velocidade: É um vetor, tangente à trajetória em cada ponto, orientado no sentido do movimento, cujo modulo é a variação do espaço percorrido por unidade de tempo nesse ponto**. (ver slide nº 11)**

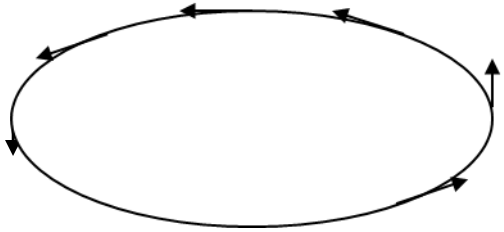

1. Movimento retilíneo

No caso do movimento retilíneo a direção do vetor é constante e coincide com a trajetória (reta).

Neste movimento, por ser constante a direção do vetor, os problemas podem ser resolvidos através de grandezas escalares, atribuindo um sinal positivo ou negativo ao módulo do vetor conforme a distância da partícula ao ponto de referência aumenta ou diminui com o tempo. Passaremos a utilizar o termo VELOCIDADE ESCALAR.

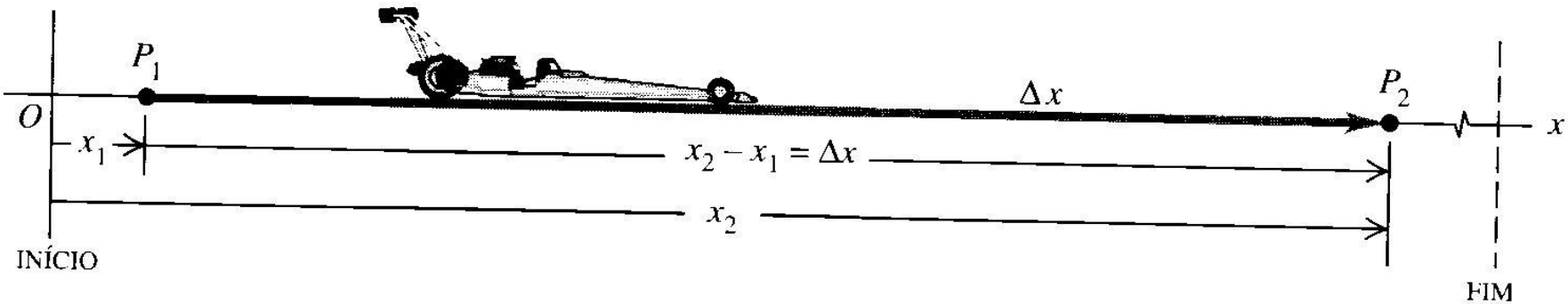

A trajetória tem a direção do eixo Ox. O sinal positivo é atribuído ao deslocamento quando este se faz no o sentido positivo do eixo e negativo no caso contrário (considera-se que o carro é uma partícula que ocupa as posições P_1, P_2, etc..).

Velocidade média (V_m): É o espaço que em média o carro (partícula) percorre por unidade de tempo. Calcula-se dividindo o espaço percorrido Δx pelo tempo de duração do percurso (Δt).

$$V_m = \frac{\Delta x}{\Delta t} = \frac{(x_2 - x_1)}{(t_2 - t_1)}$$

Neste exemplo a velocidade média é positiva porque, como o movimento se faz no sentido positivo do eixo, $x_2 > x_1$.

Velocidade instantânea é a velocidade que o carro (partícula) tem em cada instante.

$$v = \lim_{\Delta t \to 0} \frac{\Delta x}{\Delta t} = \frac{dx}{dt}$$

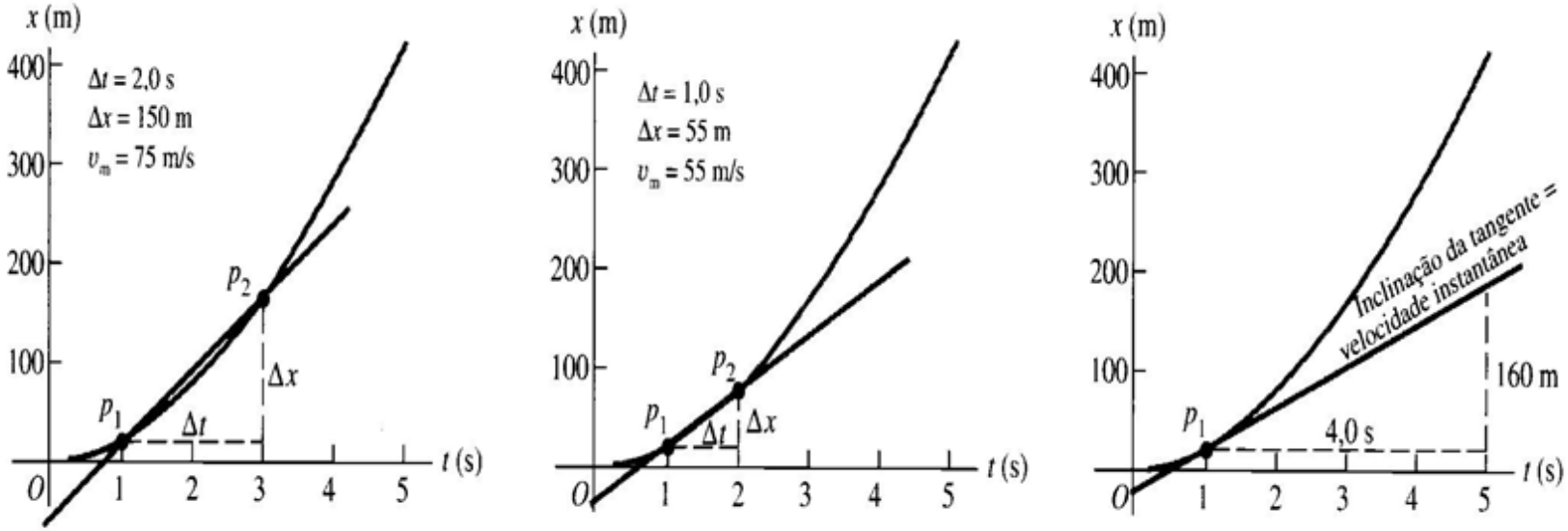

É fácil perceber que no percurso de uma viatura num circuito urbano a velocidade varia muito ao longo do tempo, dado que há períodos de paragem em que a velocidade é nula, seguindo-se períodos em que o carro vai aumentando gradualmente de velocidade e depois perdendo velocidade até parar de novo. Nos vários pontos do percurso o carro terá **diferentes velocidades instantâneas** e no final do percurso se dividir o espaço percorrido pelo tempo que demorou o percurso, obtém-se a **velocidade média**.

No gráfico de variáveis t e x (tempo *vs.* espaço) representa-se o movimento retilíneo de uma partícula em que a velocidade varia ao longo do tempo

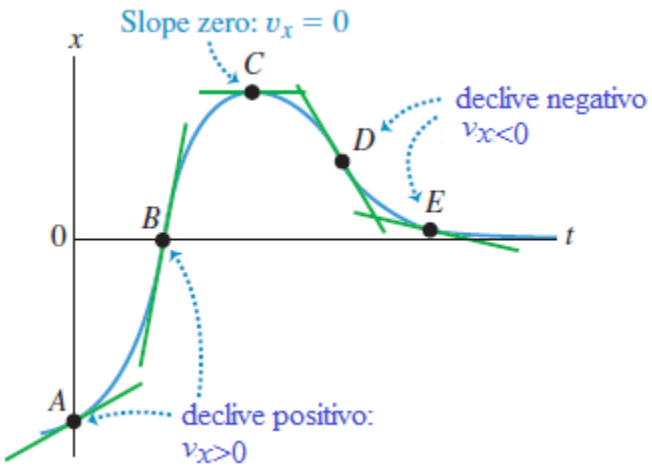

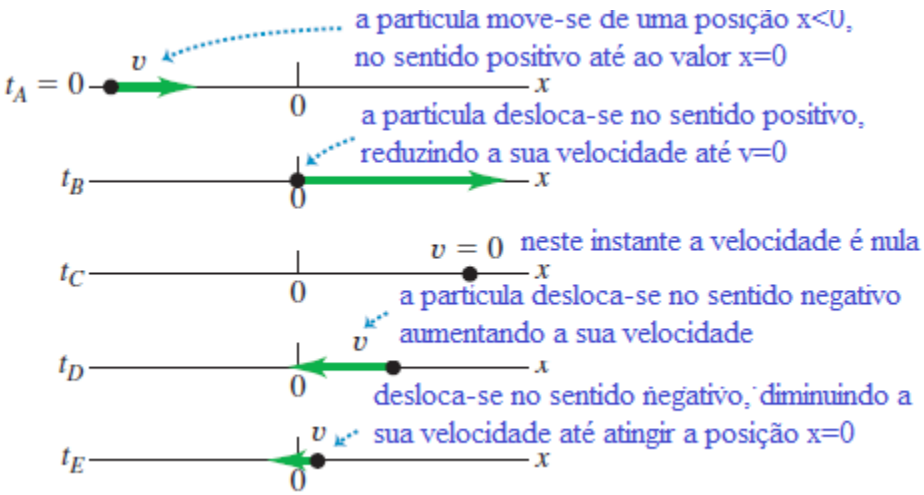

Aceleração média de uma partícula que se move de P_1 para P_2 em movimento retilíneo é um vetor que tem a seguinte componente segundo o eixo Ox

$$a_m = \frac{\Delta v}{\Delta t} = \frac{v_2 - v_1}{t_2 - t_1}$$

A **aceleração instantânea** será então:

$$a = \lim_{\Delta' t \to 0} \frac{\Delta v}{\Delta t} = \frac{dv}{dt}$$

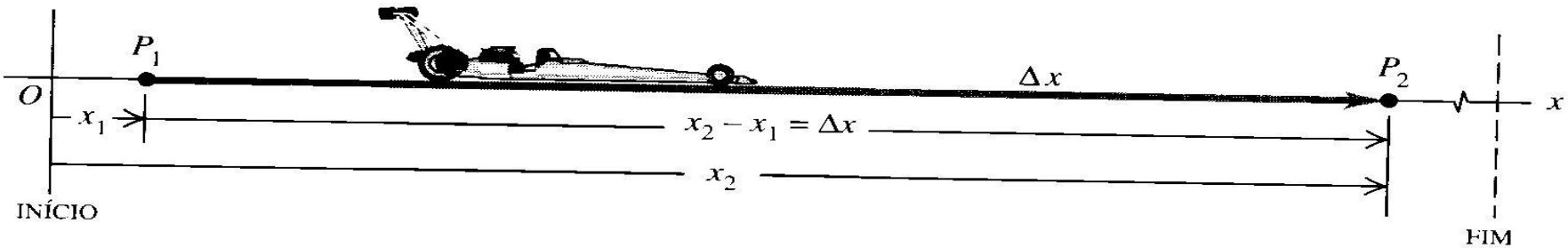

"Quando se carrega no acelerador de um carro a velocidade vai aumentando com o tempo, a aceleração é positiva($\Delta v > 0$), **O MOVIMENTO É ACELERADO**
Quando se carrega no travão, a velocidade vai diminuindo com o tempo, a aceleração é negativa ($\Delta v < 0$), pelo que **O MOVIMENTO É RETARDADO**."

A afirmação anterior é válida quando o movimento se faz no sentido em que o valor de x aumenta. Quando se faz em sentido contrário , isto é, quando o carro está a andar de marcha atrás, com movimento acelerado, as velocidades são negativas porque o valor de x diminui com o tempo, e a variação da velocidade é negativa porque a velocidade diminui com o tempo.

Se por exemplo a velocidade fosse, em valor absoluta, 2 m/s em P_2 e 5 m/s em P_1 (está a acelerar), como as velocidades são negativas ficava: $\Delta v = -5 - (-2) = -3 < 0$ e portanto a<0

De uma forma geral pode-se afirmar que o **MOVIMENTO É ACELERADO quando a velocidade e a aceleração têm o mesmo sinal e é RETARDADO quando a velocidade e a aceleração têm sinais contrários.**

Quando se mantém a mesma aceleração, diz-se que o movimento é **UNIFORMEMENTE ACELERADO** ou **UNIFORMEMENTE RETARDADO ou, mais genericamente, UNIFORMEMENTE VARIADO.**

Movimento retilíneo uniforme: caracteriza-se pela **constância da velocidade** instantânea. O corpo mantem a mesma velocidade ao longo do tempo.

$$v = const. \Rightarrow \frac{dx}{dt} = v \Rightarrow \boxed{x = x_0 + vt}$$

x_0 é o espaço inicial, porque quando t=0 tem-se: $x = x_0$

Movimento retilíneo uniformemente variado: caracteriza-se pela **constância da aceleração**

$$a = const. \Rightarrow \frac{dv}{dt} = a \Rightarrow \boxed{v = v_0 + at}$$

v_o É a velocidade inicial (no instante t=0)

A equação que traduz a variação do espaço com o tempo obtém-se integrando a expressão anterior:

$$v = \frac{dx}{dt} = v_0 + a \times t \quad \Rightarrow \boxed{x = x_0 + v_0 t + \frac{1}{2} a t^2}$$

Nalguns problemas poderá interessar utilizar uma equação onde não esteja explicitamente o tempo, mas em que a posição do ponto pode ser calculada conhecendo a sua velocidade, a velocidade inicial e a aceleração.

Da equação da velocidade

$$v = v_0 + at$$

tira-se que:

$$t = \frac{v - v_o}{a}$$

Substituindo na equação dos espaços fica::

$$x - x_0 = v_o\left(\frac{v - v_0}{a}\right) + \frac{1}{2}a\left(\frac{v - v_0}{a}\right)^2$$

$$x - x_0 = \frac{vv_0}{a} - \frac{{v_0}^2}{a} + \frac{v^2}{2a} - \frac{2vv_0}{2a} + \frac{{v_0}^2}{2a}$$

$$x - x_0 = -\frac{{v_0}^2}{2a} + \frac{v^2}{2a} = \frac{1}{2a}\left(v^2 - {v_0}^2\right)$$

Esta equação permite calcular o espaço percorrido, quando se conhecem duas velocidades e a aceleração

A última equação pode ainda escrever-se sob a forma

$$v^2 = {v_0}^2 + 2a(x - xo)$$

que permite calcular a velocidade que terá um ponto à distância d=x-x_o da posição inicial, conhecendo a aceleração constante do movimento

Ou sob a forma

$$a = \frac{v^2 - {v_0}^2}{2(x - x_0)}$$

que permite calcular a aceleração do movimento em função da velocidade e da distância percorrida

QUEDA LIVRE DE UM CORPO LANÇADO NO ESPAÇO

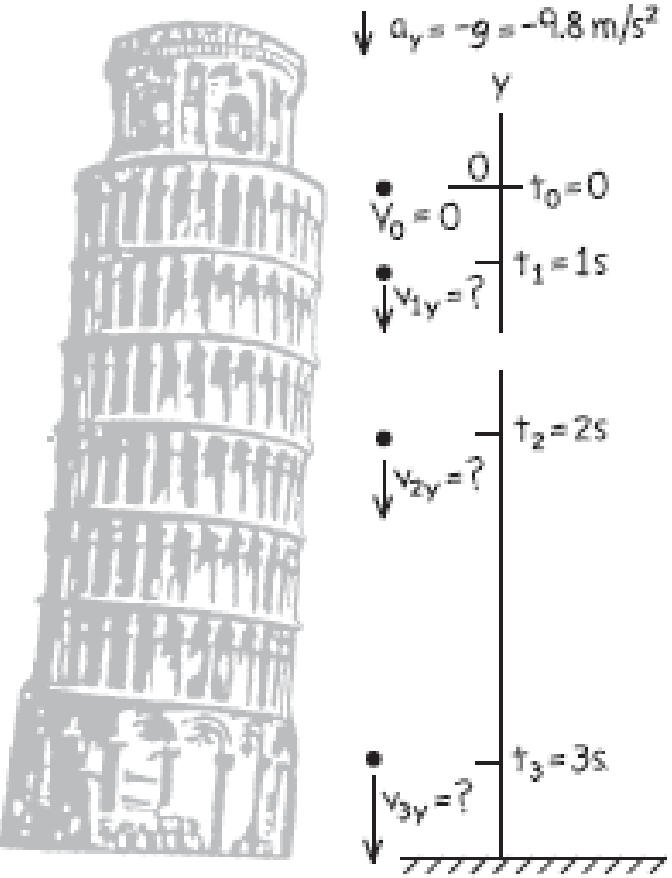

Uma moeda é largada na origem do eixo Oy. À medida que o movimento se desenvolve a moeda vai caminhando no sentido negativo daquele eixo.

a) a variação dos espaços tem sinal negativo => v<0
b) a variação da velocidade tem sinal negativo => a<0
c) a velocidade inicial é negativa se for dado um impulso para baixo

As equações do movimento

$$v = v_0 + at \quad e \quad y = y_o + v_0 t + \frac{1}{2} a t^2$$

serão agora escritas:

$$a = -g \quad \Rightarrow v = -v_0 - gt$$

$$y = y_0 - v_0 t - \frac{1}{2} g t^2 \Rightarrow \; y_0 - y = v_0 t + \frac{1}{2} g t^2$$

Muitas vezes considera-se uma nova variável $\boxed{h = y_0 - y}$

$$\boxed{v = v_0 + gt} \quad e \quad \boxed{h = v_0\, t + \frac{1}{2} g\, t^2}$$

Quando se faz a mudança de variáveis a velocidade e também a velocidade inicial passam a ser positivas quando são dirigidas para baixo que é o sentido em que o valor da variável h aumenta (***"h é a altura de que o corpo cai"***)

Retomando a equação geral do que relaciona duas velocidades com a aceleração e considerando agora o eixo dos yy tem-se:

$$v^2 = {v_0}^2 + 2a(y - y_o) \qquad v^2 = {v_0}^2 - a(y_0 - y)$$

Fazendo: $a = -g$ e $(y_o - y) = h$ fica:

$$v^2 = {v_0}^2 + 2gh$$

Quando a velocidade inicial é nula tem-se:

$$\boxed{v = \sqrt{2gh}}$$

Que é a fórmula de Torricelli que fornece diretamente a velocidade com que uma partícula chega ao solo, largado, sem velocidade inicial, de uma altura h.

Ou, explicitando o valor de h

$$\boxed{h = \frac{v^2}{2g}}$$

Qua é a altura de que uma partícula foi largada sem velocidade inicial quando atinge o solo com uma velocidade v.

Para saber o tempo que uma partícula demora a chegar ao solo, largada sem velocidade inicial de uma altura h tem-se:

$$v = v_0 + gt \quad com \quad v_0 = 0$$

$$\boxed{t = \frac{v}{g} = \frac{\sqrt{2gh}}{g} = \sqrt{\frac{2h}{g}}}$$

Movimento não retilíneo

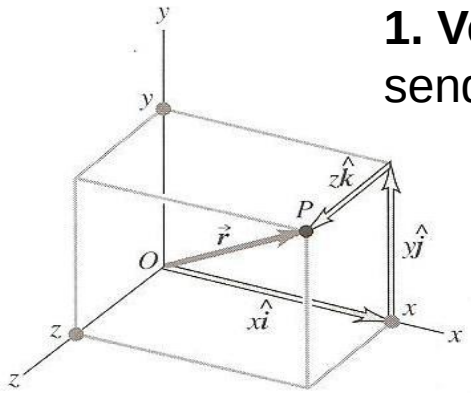

FIGURA 3.1 O vetor posição $\vec{r}$ da origem até o ponto P possui componentes x, y e z.

1. Vector de posição de um ponto P(x,y,z) é o vector (P-O) sendo O(0,0,0) a origem dos eixos coordenados

$$\vec{r} = P - O = x\vec{\imath} + y\vec{\jmath} + z\vec{k}$$

2. Velocidade

Quando o ponto P se desloca no espaço, o seu vector de posição vai mudando ao longo do tempo.

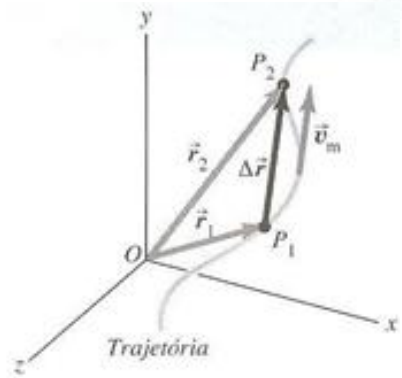

FIGURA 3.2 A velocidade média $\vec{v}_m$ entre os pontos P_1 e P_2 possui a mesma direção e o mesmo sentido do vetor deslocamento $\Delta\vec{r}$.

$$\overrightarrow{V_m} = \frac{\Delta\vec{r}}{\Delta t}$$

Vetor velocidade média (variação do vetor de posição com o tempo)

$$\vec{V} = \lim_{\Delta t \to 0} \frac{\Delta\vec{r}}{\Delta t}$$

Vetor velocidade instantânea

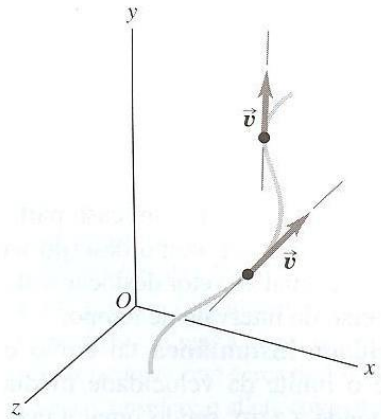

FIGURA 3.3 A velocidade instantânea $\vec{v}$ em cada ponto é tangente à trajetória no referido ponto.

2. Aceleração

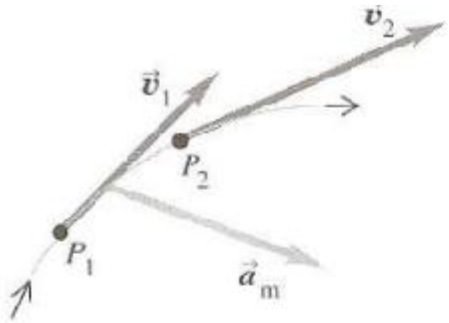

(a)

FIGURA 3.6 (a) O vetor $\vec{a}_m = \Delta\vec{v}/\Delta t$ representa a aceleração média entre os pontos P_1 e P_2.

$$\vec{a}_m = \frac{\Delta\vec{V}}{\Delta t}$$

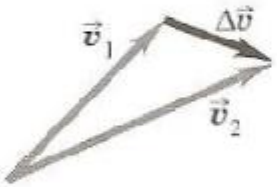

(b)

(b) Construção para obtermos $\Delta\vec{v} = \vec{v}_2 - \vec{v}_1$.

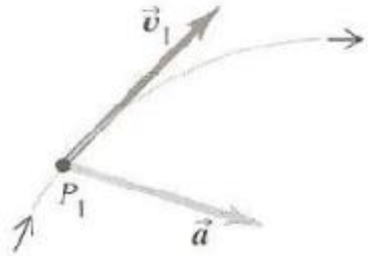

(c)

(c) A aceleração instantânea $\vec{a}$ no ponto P_1.
O vetor $\vec{v}$ é tangente à trajetória e o vetor $\vec{a}$ aponta para o lado côncavo da trajetória.

$$\vec{a} = \lim_{\Delta t \to 0} \frac{\Delta\vec{V}}{\Delta t}$$

MOVIMENTO PLANO

Este movimento acontece num plano e pode ser estudado apenas com duas dimensões, utilizando um sistema de referência Oxy. Neste caso é fácil mostrar que o vetor velocidade é tangente à trajetória em cada ponto

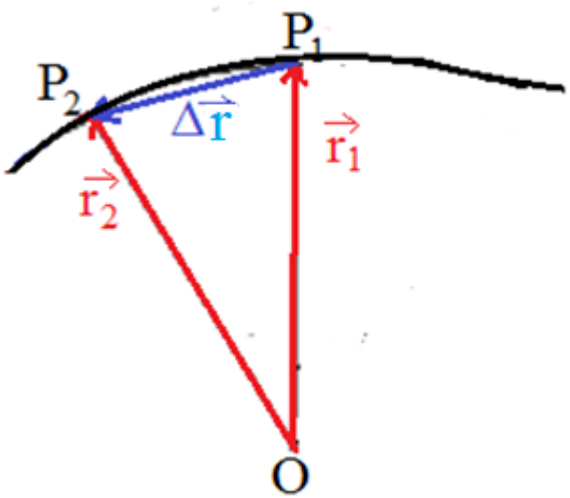

Os vetores de posição são os vetores complanares $\vec{r}_1$ e $\vec{r}_2$

$\Delta\vec{r} = \vec{r_2} - \vec{r_1}$ tem a direção da secante à curva.

$$\vec{V_m} = \frac{\Delta\vec{r}}{\Delta t}$$

Quando se calcula a velocidade instantânea $\vec{V} = \lim_{\Delta t \to 0} \frac{\Delta\vec{r}}{\Delta t}$ os pontos tendem aproximar-se e a secante tende para a tangente.

Nos movimentos não retilíneos é usual utilizar a variável ***s*** para o espaço e não as variáveis x ou y como se fez anteriormente, dado que o movimento não se faz na direção de um eixo coordenado.

1. MOVIMENTO CIRCULAR

$$s = r\phi$$

$$180^{o} = \pi \ rad$$

a) MOVIMENTO CIRCULAR UNIFORME

Este movimento caracteriza-se por uma velocidade escalar (v) constante. No entanto, o **vetor velocidade é variável** porque ele muda de direção, mesmo que mantenha o mesmo módulo. Seja ***s*** o percurso percorrido pela partícula sobre a circunferência. Tem-se:

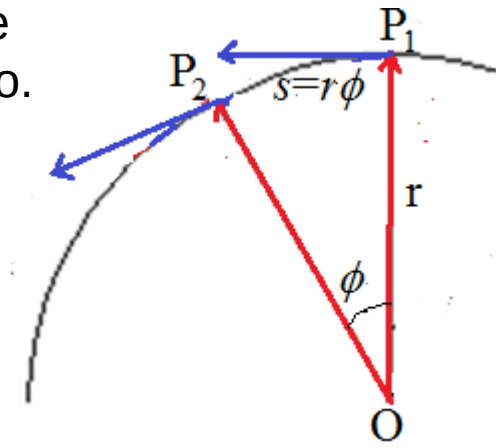

$$v = const \Rightarrow \frac{ds}{dt} = v \Rightarrow \boxed{s = s_0 + vt}$$

Esta velocidade também se chama *velocidade linear*.

Derivando em ordem ao tempo a equação $s = r\phi$ obtém-se:

$$\frac{ds}{dt} = r\frac{d\phi}{dt}$$

$\omega = \dfrac{d\phi}{dt}$ representa a variação do ângulo ao centro ϕ com o tempo e denomina-se **velocidade angular** e exprime-se, no SI, em rad/s.

$\boxed{v = r\omega}$ É a expressão que relaciona a **velocidade angular** com a **velocidade linear**

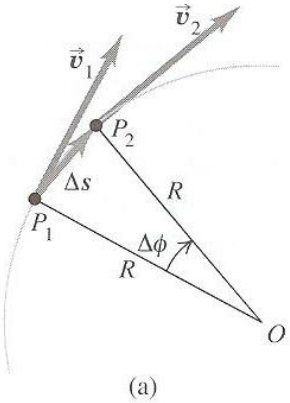

O vetor aceleração $\vec{a} = \lim_{\Delta t \to 0} \frac{\Delta \vec{V}}{\Delta t}$ não é nulo porque agora $\Delta \vec{V} \neq 0$

(o vector velocidade embora tenha o mesmo módulo muda de direção e sentido)

Para deduzir a expressão da aceleração, considere uma partícula que se desloca no sentido AB com velocidade v numa circunferência de raio r.

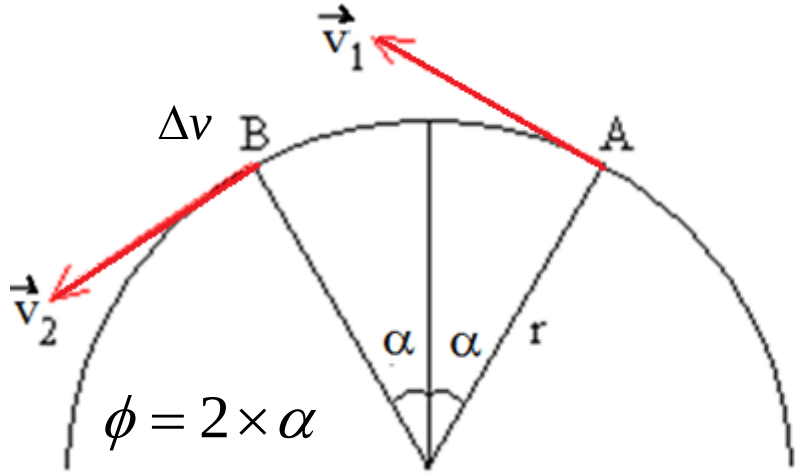

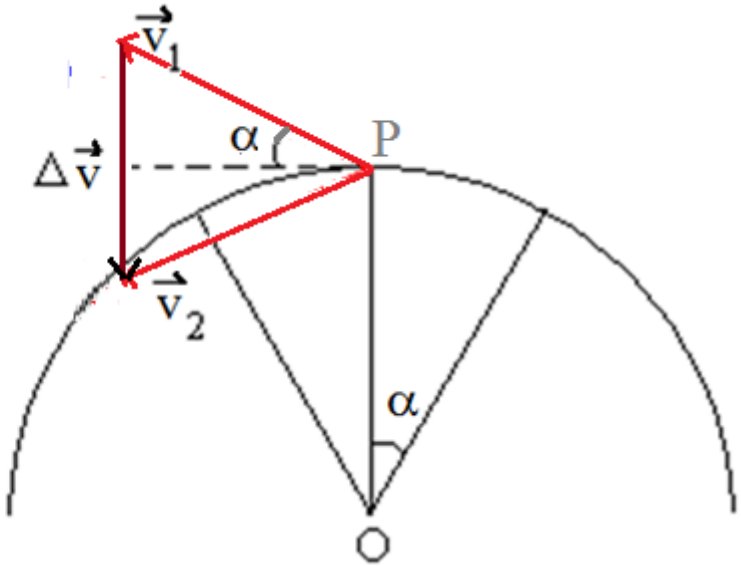

Adaptado de: http://www.fisica.ufs.br/CorpoDocente/egsantana/cinematica/circular3/circular3.htm

O ponto encontra-se em A no instante t-Δt/2 com velocidade $\overrightarrow{V_1}$ e em B no instante t+Δt/2, com velocidade $\overrightarrow{V_2}$.

Se a velocidade for uniforme os dois vetores têm o mesmo módulo, v. A variação do vetor velocidade pode ser calculada graficamente colocando os dois vetores com origem no ponto médio P.

Como o triângulo é isósceles, porque os módulos v dos vetores velocidade instantânea nos dois pontos são iguais, tem-se:

$$\left|\Delta\vec{V}\right|_n = 2 \times v \times sen(\alpha)$$

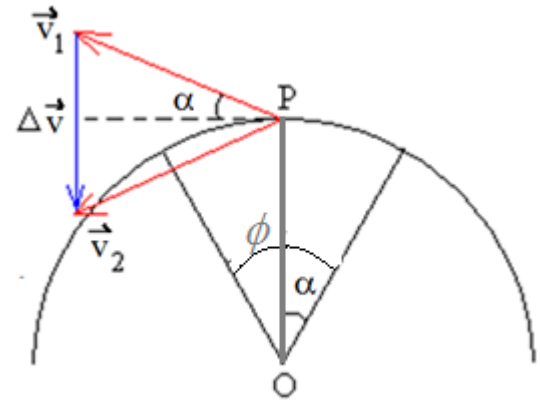

O ângulo ao centro descrito no intervalo de tempo Δt é:

$$\phi = 2 \times \alpha$$

O espaço percorrido pelo corpo no mesmo intervalo de tempo:

$$\Delta s = r \times \phi = 2 \times r \times \alpha$$

O intervalo de tempo Δt pode ser expresso em função da velocidade

$$\Delta t = \frac{\Delta s}{v} \Rightarrow \Delta t = \frac{2 \times r \times \alpha}{v}$$

O módulo do vetor aceleração média que traduz a variação da velocidade no intervalo de tempo Δt, pode escrever-se:

$$a_{média} = \frac{\left|\Delta\vec{V}\right|_n}{\Delta t} = \frac{2 \times \mathrm{v} \times \mathrm{sen}(\alpha)}{\frac{2 \times \mathrm{r} \times \alpha}{\mathrm{v}}} = \frac{\mathrm{v}^2}{\mathrm{r}} \times \frac{\mathrm{sen}(\alpha)}{\alpha}$$

$$a_{média} = \frac{|\Delta\vec{V}|_n}{\Delta t} = \frac{2 \times v \times sen(\alpha)}{\frac{2 \times r \times \alpha}{v}} = \frac{v^2}{r} \times \frac{sen(\alpha)}{\alpha}$$

Para determinar o valor da aceleração instantânea calcula-se $a_n = \lim_{\Delta t \to 0} \frac{(\Delta v)_n}{\Delta t}$

Quando $\Delta t \to 0; \alpha \to 0 \Rightarrow \frac{sen(\alpha)}{\alpha} \to 1$ porque para ângulos muito pequenos o valor do seno é igual ao ângulo

Será então:

$$a_n = \lim_{\Delta t \to 0} \frac{|\Delta\vec{V}|_n}{\Delta t} \Rightarrow a_n = \frac{v^2}{r}$$

$$\boxed{a_n = \frac{v^2}{r}}$$

Esta expressão permite calcular a aceleração normal ou centrípeta em função da velocidade escalar e do raio da circunferência.

Considerando a velocidade angular

$$\boxed{v = r \times \omega}$$

$$a_n = \frac{(r\omega)^2}{r} \Rightarrow a_n = r\omega^2$$

$$\boxed{a_n = r \times \omega^2}$$

b) **MOVIMENTO CIRCULAR UNIFORMEMENTE VARIADO**

No movimento circular uniformemente variado existe, em cada ponto da curva, uma componente normal da aceleração devido à curvatura. Há também uma componente tangencial que é constante e que se define como a variação da velocidade linear com o tempo.

$$a_t = const \Rightarrow \frac{dv}{dt} = a_t \Rightarrow v = v_0 + a_t t$$

A equação dos espaços deduz-se de forma idêntica à do movimento retilíneo e fica:

$$s = s_o + v_o t + \frac{1}{2} a_t t^2$$

O vetor aceleração calcula-se com o a soma das suas duas componentes:

$$\vec{a} = a_t \vec{t} + a_n \vec{n} \qquad a = \sqrt{a_t^{\,2} + a_n^{\,2}}$$

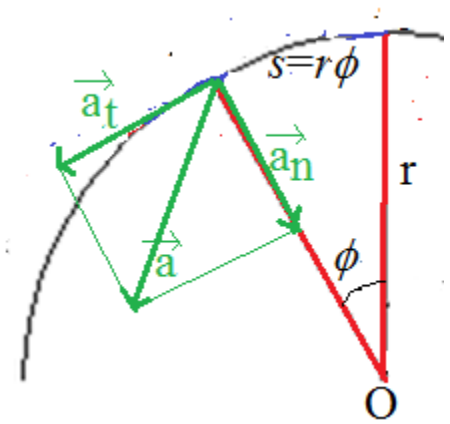

2. MOVIMENTO DE UM PROJÉTIL

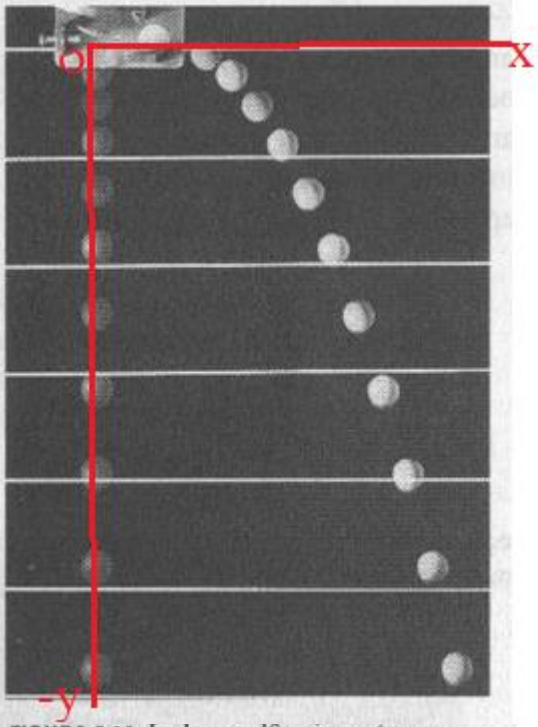

FIGURA 3.14 Independência entre o movimento na vertical e na horizontal. A bola da esquerda é largada verticalmente sem velocidade inicial. Simultaneamente, a bola da direita é lançada horizontalmente do mesmo ponto; as imagens sucessivas desta fotografia estroboscópica são registradas em intervalos de tempo iguais. Para cada intervalo de tempo as duas bolas possuem os mesmos componentes *y* da posição, da velocidade e da aceleração, embora os componentes *x* da posição e da velocidade sejam diferentes.

A figura mostra dois projéteis com diferentes movimentos no eixo Ox, mas idênticos movimentos no eixo Oy;

- um corresponde ao movimento de uma bola largada no espaço sem velocidade inicial
- o outro de uma bola lançada na horizontal com velocidade inicial v_0.

Em ambos os movimentos as bolas percorrem a mesma distância medida na vertical em intervalos de tempo iguais.
Esta observação permite-nos concluir que, no 2º movimento, a posição P(x,y) da bola num instante t, pode ser determinada calculando separadamente as suas coordenadas.

a) Movimento projetado segundo Ox (uniforme)

$$x = x_0 + v_{0x}t$$

$$x = v_{0x}t \qquad v_x = v_{0x}$$

b) Movimento projetado em Oy (uniformemente acelerado)

$$y = y_0 + v_{0y}t - \frac{1}{2}gt^2 \qquad v_y = v_{0y} - gt$$

No caso presente a velocidade inicial do movimento vertical é nula e o ponto parte da origem dos eixos, fica:

$$y = -\frac{1}{2}gt^2 \qquad v_y = -gt$$

Quando o projétil é lançado na atmosfera numa direção que faz um ângulo α_0 com a horizontal, a trajetória é a seguinte:

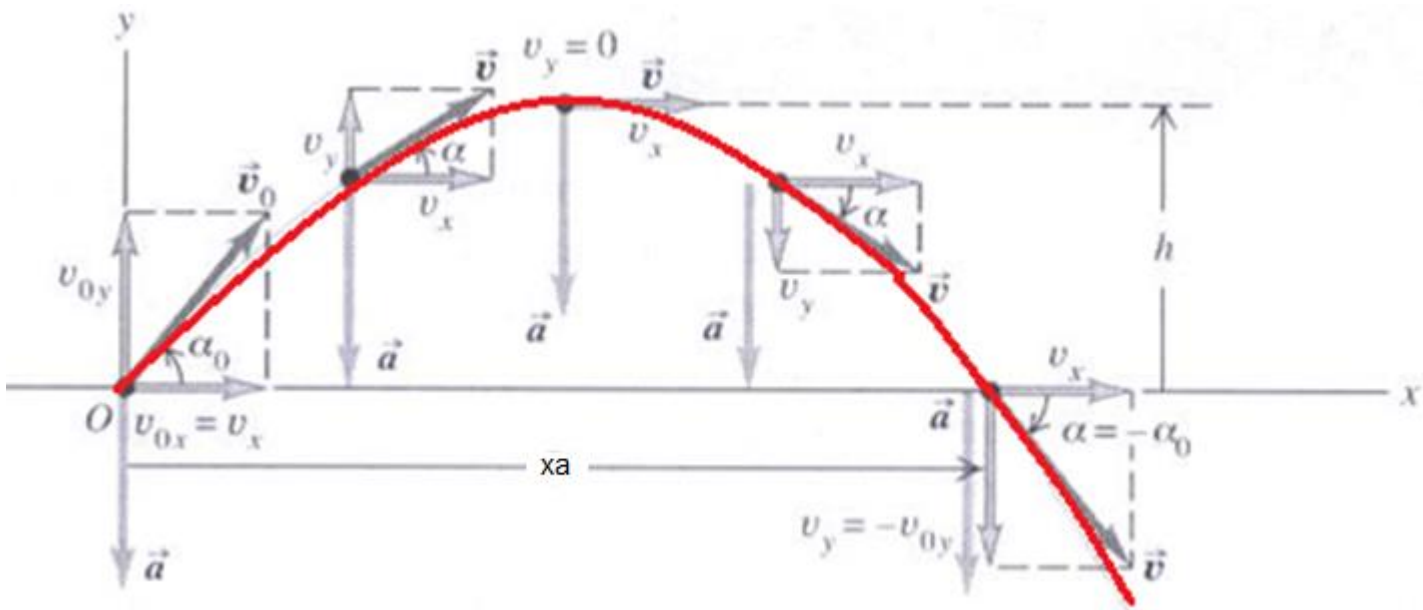

Coloca-se a origem dos eixos no ponto de lançamento do projétil. $x_0 = 0;\quad y_0 = 0;$

As componentes da velocidade inicial nos eixos são: $v_{0x} = v_0\cos(\alpha_0);\quad v_{0y} = v_0 sen(\alpha_0)$

$$\begin{cases} x = x_0 + v_{0x}t \\ y = y_0 + v_{0y}t - \frac{1}{2}gt^2 \end{cases} \qquad \begin{cases} x = v_0\cos(\alpha_0)t \\ y = v_0 sen(\alpha_0)t - \frac{1}{2}gt^2 \end{cases}$$

Mov. uniforme da projeção em Ox.

Mov. un/ acelerado da projeção em Oy.

As componentes do vetor velocidade obtêm-se derivando em ordem ao tempo as coordenas do ponto P(x,y)

$$\begin{cases} v_x = v_{0x} \\ v_y = v_{0y} - gt \end{cases}$$

$$\begin{cases} v_x = v_o \cos(\alpha_0) \\ v_y = v_0 sen(\alpha_0) - gt \end{cases}$$

$$v = \sqrt{v_x^2 + v_y^2}$$

O módulo do vetor velocidade é: $\left|\vec{V}\right| = \sqrt{v_x^2 + v_y^2}$

O vetor velocidade é, em cada posição, tangente à trajetória. A sua direção e o sentido podem ser identificados pelo angulo α que o vetor faz com Ox.

$$\alpha = atg\left(\frac{v_y}{v_x}\right)$$

No ponto em que a trajetória interseta o eixo Ox é $\alpha = -\alpha_0$, *como se pode observar na figura*

No ponto mais alto da trajetória a componente da velocidade segundo Oy é nula e a velocidade é igual à componente horizontal da velocidade inicial.

No ponto em que o projétil volta a encontrar o eixo Ox o módulo da velocidade é igual ao módulo da velocidade inicial.

A **equação da trajetória** y=f(x) obtém-se eliminando t entre as duas equações que fornecem os valores de x e y respetivamente.

$$\begin{cases} x = v_0 \cos(\alpha_0) t \\ y = v_0 sen(\alpha_0) t - \frac{1}{2} g t^2 \end{cases}$$

Da 1ª equação tira-se que

$$t = \frac{x}{v_0 \cos(\alpha_0)}$$

Substituindo este valor na 2ª equação tem-se:

$$y = v_0 sen(\alpha_0) \left(\frac{x}{v_0 \cos(\alpha_0)} \right) - \frac{g}{2} \left(\frac{x}{v_0 \cos(\alpha_0)} \right)^2 \Rightarrow$$

$$\boxed{y = tg(\alpha_0)\, x - \frac{g}{2 v_0^2 \cos^2(\alpha_0)} x^2}$$

É a equação de uma parábola do tipo $y = a\, x - b x^2$

A **altura máxima** atinge-se quando a componente vertical da velocidade é nula.

$$v_y = v_0 sen(\alpha_0) - g t = 0 \qquad t = \frac{v_0 sen(\alpha_0)}{g}$$

ALCANCE (x_a) é o valor de x na posição em que a trajetória cruza o eixo Ox.

Considerando a equação da trajetória, faz-se y=0

$$y = tg(\alpha_0)\, x_a - \frac{g}{2v_0^2 \cos^2(\alpha)} x_a^2 = 0 \Rightarrow x_a \left(tg(\alpha_0) - \frac{g}{2v_0^2 \cos^2(\alpha)} x_a \right) = 0$$

$$\mathrm{tg}(\alpha_0) - \frac{g}{2v_0^2 \cos^2(\alpha)} x_a = 0 \quad \Rightarrow \quad \frac{\mathrm{sen}(\alpha_0)}{\cos(\alpha_0)} = \frac{g}{2v_0^2 \cos^2(\alpha)} x_a$$

$$x_a = \frac{sen(\alpha_0)\, 2v_0^2 \cos^2(\alpha)}{\cos(\alpha_0) g}$$

$$xa = \frac{2v_0^2 sen(a_0) \cos(\alpha_o)}{g}$$

ALCANCE MÁXIMO

O alcance máximo calcula-se encontrando o valor de α que torna máximo a função x_a=f(α)

$$\frac{d(xa)}{d(\alpha_0)} = 0 \Rightarrow \frac{2V_0^{\ 2}}{g}\left(\cos^2(\alpha_0) - sen^2(\alpha_0)\right) = 0 \Rightarrow \frac{2V_0^{\ 2}}{g}\cos(2\alpha_0) = 0$$

$$\cos(2\alpha_0) = 0 \Rightarrow 2\alpha_0 = a\cos(0) \Rightarrow 2\alpha_0 = \frac{\pi}{2} \Rightarrow \alpha_0 = \frac{\pi}{4}$$

Para a mesma velocidade inicial, o alcance máximo atinge-se com uma ângulo de 45º

VELOCIDADE RELATIVA

a) Dois movimentos retilíneos com a mesma direção e o mesmo sentido

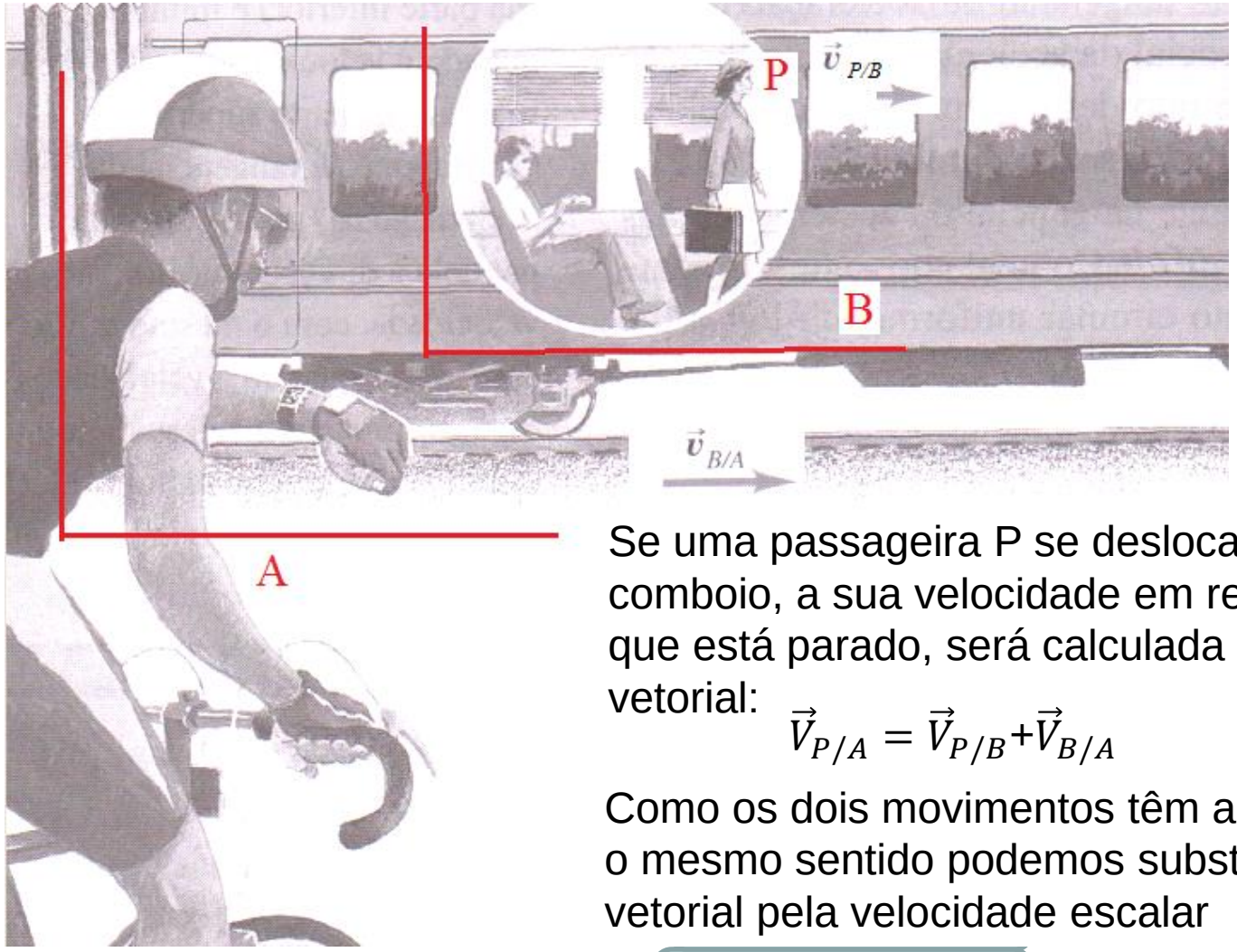

Se uma passageira P se deslocar no corredor de um comboio, a sua velocidade em relação a um ciclista, que está parado, será calculada pela expressão geral vetorial:

$$\vec{V}_{P/A} = \vec{V}_{P/B} + \vec{V}_{B/A}$$

Como os dois movimentos têm a mesma direção e o mesmo sentido podemos substituir a velocidade vetorial pela velocidade escalar

$$v_{P/A} = v_{P/B} + v_{B/A}$$

b) Dois movimentos retilíneos com a mesma direção e sentidos contrários

A equação geral é: $\vec{V}_{T/E} = \vec{V}_{T/Y} + \vec{V}_{Y/E}$

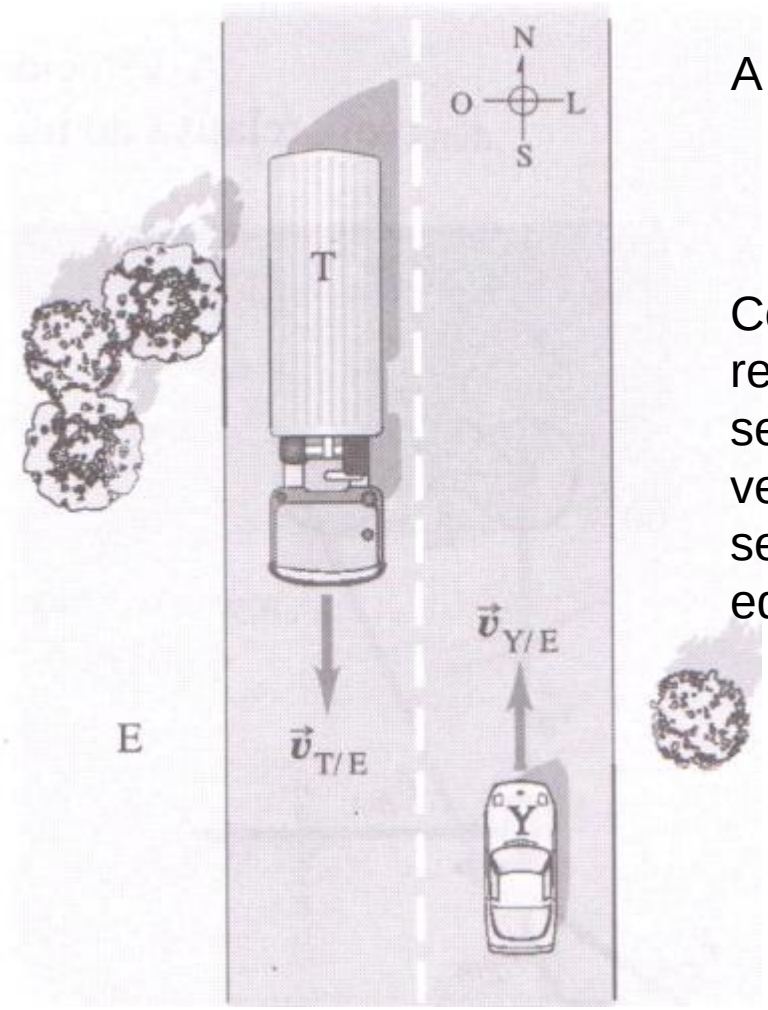

A velocidade relativa dos 2 veículos será:

$$\vec{V}_{T/Y} = \vec{V}_{T/E} - \vec{V}_{Y/E}$$

Como os vetores velocidade dos veículos em relação à estrada têm a mesma direção mas sentidos contrários, podemos tomar as velocidades escalares considerando positivo o sentido da deslocação de T. Nesse caso a equação anterior escreve-se:

$$v_{T/Y} = v_{T/E} + v_{Y/E}$$

c) Dois movimentos retilíneos com direções diferentes



$$\vec{V}_{P/A} = \vec{V}_{P/B} + \vec{V}_{B/A}$$

Como se pode observar na figuram a passageira desloca-se agora perpendicularmente ao corredor, em direção ao seu lugar. Neste caso o problema tem que ser resolvido vetorialmente.